Trigonométrie

Admin | Raz | Cacher

Afficher les objectifs →

Nombre d'erreurs maxi acceptées : 2

Couleur mauvaises réponses : Rouge

Couleur bonnes réponses : Vert

Mode édition | Appliquer

Cliquer sur appliquer ↑ après l'édition du document

Centrer champs | Générer listes déroulantes

Corriger les parties n°1 à ...

Compléter le questionnaire en faisant moins de 2 erreurs

- **Couleur des bonnes réponses : vert**
- **Couleur des mauvaises réponses : rouge**

Nombre d'erreurs commises : 0

Exercices d'entrainement

Démarrer

Choix de la formule

Aide

Dans le triangle rectangle ci-contre, quelle formule utiliser pour calculer la longueur AC ?
Sachant que :

α = 8°

AB = 75mm

?

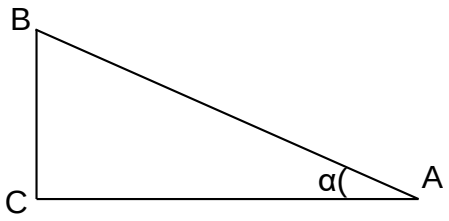

Vérifier | Recommencer

Raz

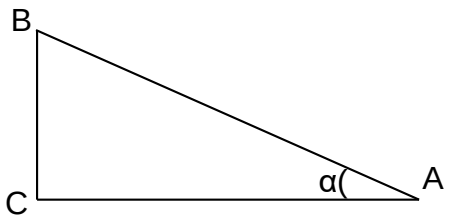
B
C
α(
A

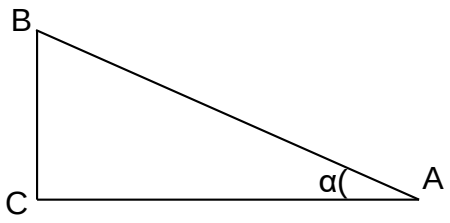
B
C
α(
A