Admin

Trigonométrie

Compléter le questionnaire en faisant moins de 2 erreurs

- **Couleur des bonnes réponses : vert**
- **Couleur des mauvaises réponses : rouge**

Nombre d'erreurs commises : 0

Exercices d'entrainement

Démarrer

Aleatoir

Choix de la formule

Aide

Dans le triangle rectangle ci-contre, quelle formule utiliser pour calculer la longueur AC ?
Sachant que :

α = 19°

AB = 74mm

?

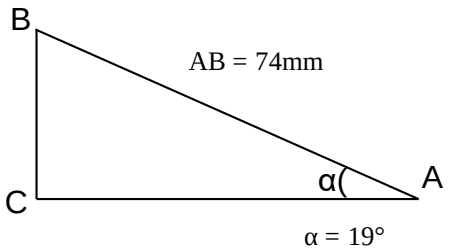

α = 19°

Vérifier Recommencer

Raz

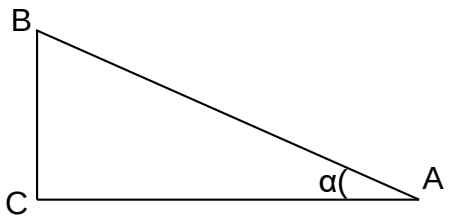
B
C
α(
A

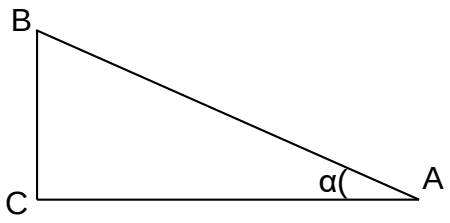
B
C
α(
A