Admin

Trigonométrie

Exercices d'entrainement

Démarrer

Choix de la formule

Aide

Dans le triangle rectangle ci-contre, quelle formule utiliser pour calculer la longueur AC ?
Sachant que :

α = 21°

AB = 67mm

?

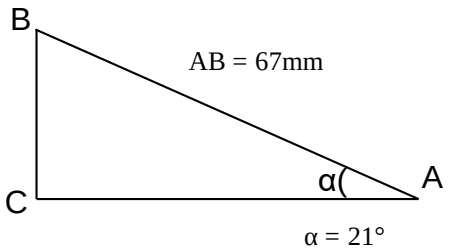

Vérifier Recommencer

Raz

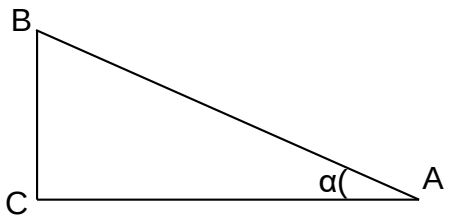
B
C
α(
A

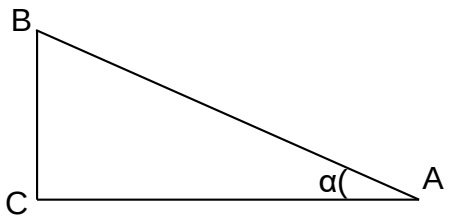
B
C
α(
A